わり算①（わり算の しき ③） ［こたえ］

3年生　1学期　前期　　なまえ ＿＿＿＿＿＿＿＿

えを 見て、式と こたえを かきましょう。 こたえ

1 りんごが 12こ あります。
4まいの おさらに 同じ数ずつ のせます。

ぜんぶで 12こ



4さら



式 12 ÷ 4 = 3

こたえ 3 こ

2 みかんが 15こ あります。
3人で 同じ数ずつ 分けます。

ぜんぶで 15こ



3人



式 15 ÷ 3 = 5

こたえ 5 こ

3 ケーキが 8こ あります。
2まいの おさらに 同じ数ずつ のせます。

ぜんぶで 8こ



2さら



式 8 ÷ 2 = 4

こたえ 4 こ

4 ボールが 24こ あります。
4人で 同じ数ずつ 分けます。

ぜんぶで 24こ

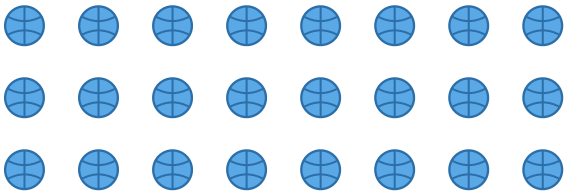

4人



式 24 ÷ 4 = 6

こたえ 6 こ