わり算①（わり算の しき ③）

3年生　1学期　前期　　なまえ ＿＿＿＿＿＿＿＿

えを 見て、式と こたえを かきましょう。

1 りんごが 12こ あります。
4まいの おさらに 同じ数ずつ のせます。

ぜんぶで 12こ



4さら



式 ＿＿＿ ÷ ＿＿＿ ＝ ＿＿＿

こたえ ＿＿＿ こ

2 みかんが 15こ あります。
3人で 同じ数ずつ 分けます。

ぜんぶで 15こ



3人



式 ＿＿＿ ÷ ＿＿＿ ＝ ＿＿＿

こたえ ＿＿＿ こ

3 ケーキが 8こ あります。
2まいの おさらに 同じ数ずつ のせます。

ぜんぶで 8こ



2さら



式 ＿＿＿ ÷ ＿＿＿ ＝ ＿＿＿

こたえ ＿＿＿ こ

4 ボールが 24こ あります。
4人で 同じ数ずつ 分けます。

ぜんぶで 24こ

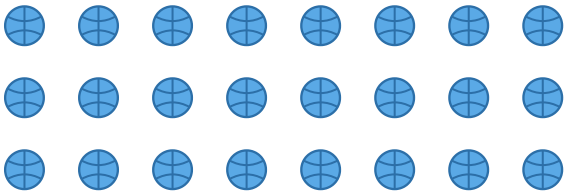

4人



式 ＿＿＿ ÷ ＿＿＿ ＝ ＿＿＿

こたえ ＿＿＿ こ